21 Tiere auf Kästchenpapier

So ein Nieselwetter! Jan, Tim, Paula und Nele beschließen, Tiere zu malen, die sie in den letzten Tagen gesehen haben. Außer an Hund und Katze erinnern sie sich an Karpfen, einen Spatz und Regenwürmer. Tim kann schnell malen. Flink ist er mit Hund und Katze fertig.

„Für welches Tier sind die meisten Kästchen benutzt?“ fragt Tim.
Er zählt bei seiner Katze 10 Kästchen, die ganz oder teilweise von der Katze bedeckt sind.

Bei welchem Tier sind die meisten Kästchen ganz oder teilweise bedeckt?



Hund



Katze



Karpfen



Spatz

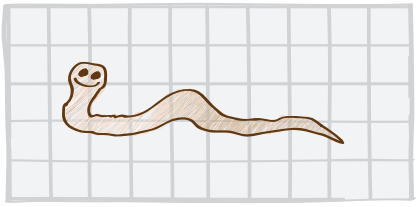

Regenwurm

Mathematikwettbewerb Känguru e.V.
www.mathe-kaenguru.de